Programme du jeudi 18 et du vendredi 19 juin 2020 - CP

Français – Etude d'un extrait de bande dessinée.

- Dans le manuel Taoki, lire pages 150, 151 et 152 « Boucle d'or et les sept ours nains ».
- Répondre oralement aux questions page 152,
- Faire les exercices 1 à 5 ci-dessous.

Mathématiques :

- Exercices 1 à 6.

Ce dimanche 21 juin est le jour de la fête des Pères. Pour ceux qui le souhaitent, sur la dernière page (qui est à plier en deux pour former une carte) se trouvent un petit poème à lire ou à réciter le moment venu avec quelques papillons et fleurs à colorier.

Français – exercices

1. **Réponds** à ces questions par une phrase.

- De quel type de texte s'agit-il ?

- Quel est le titre de ce texte ?

- À quoi servent les bulles présentes dans chaque vignette ?

- À quoi servent les encadrés jaunes présents dans la première vignette et dans la dernière ?

2. **Relie** les onomatopées aux sentiments des ours nains.

LA ! LA ! LA ! •	• l'étonnement
AAH ! •	• la joie
OOOOOOH !! •	• la peur

3. **Coche** la bonne case.

	Vrai	Faux
Les ours arrivent des mines de sel.		
Ils veulent manger et dormir.		
Ils ne sont pas très fatigués.		
Une géante dort dans un lit.		
Elle a vidé tous les bols.		
Des cambrioleurs sont entrés.		
Un roi tue les géants.		
Les ours vont chercher un prince.		

4. **Entoure** le bon résumé de l'histoire.

- Fatigués de leur journée à la mine, sept nains rentrent chez eux. Une princesse est entrée dans leur maison. Elle a tout mangé et s'est couchée sur leurs lits. Ils la regardent dormir et se couchent à ses côtés.
- Après une journée à la mine, sept ours nains rentrent chez eux. Tout est en désordre. Une géante est couchée dans leurs lits. Ils ont peur et décident d'aller chercher un prince tueur de géants.

5. **Imagine** le prince tueur de géants. **Écris** quelques phrases pour le décrire et **dessine**-le.

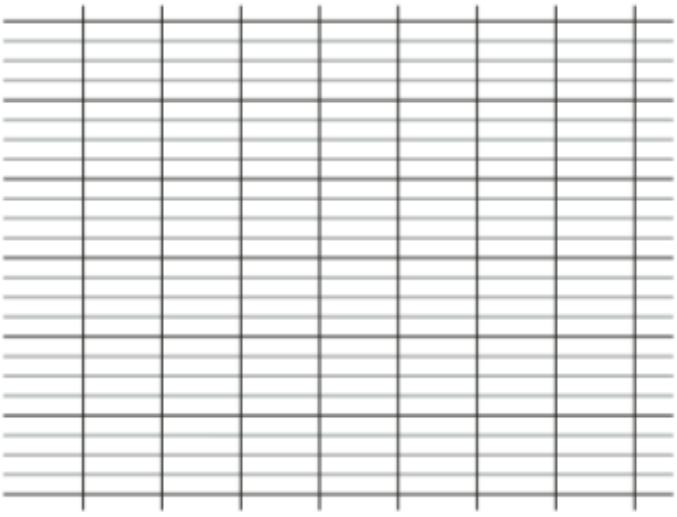

Mathématiques

Exercice 1. Jeu de l'oie. Ce jeu se joue avec 2 dés ou avec 1 dé que l'on lance 2 fois.

a. Je suis sur la case 49 et je voudrais aller sur la case 55. Combien dois-je faire aux dés ?

……

b.Je suis sur la case 56 et je voudrais aller sur la case 63. Combien dois-je faire aux dés ?

……

Exercice 2. Dénombre rapidement les objets de la feuille A puis ceux de la feuille B. Tu peux faire des paquets de 10.

Feuille A :	Feuille B :
✱✱✱✱✱✱✱✱✱✱✱✱✱✱✱ ✱✱✱✱✱✱✱✱✱✱✱✱✱✱✱ ✱✱✱✱✱✱✱✱✱✱✱✱✱✱✱ ✱✱✱✱✱✱✱✱✱✱✱✱✱✱✱ ✱✱✱✱✱✱✱✱✱✱✱✱✱✱✱ ✱✱✱✱✱✱✱✱✱✱ ………….	 …………………

Exercice 3. Résous un problème de ton « mini-fichier Problèmes ».

Exercice 4. Réalise une fleur du nombre 74.

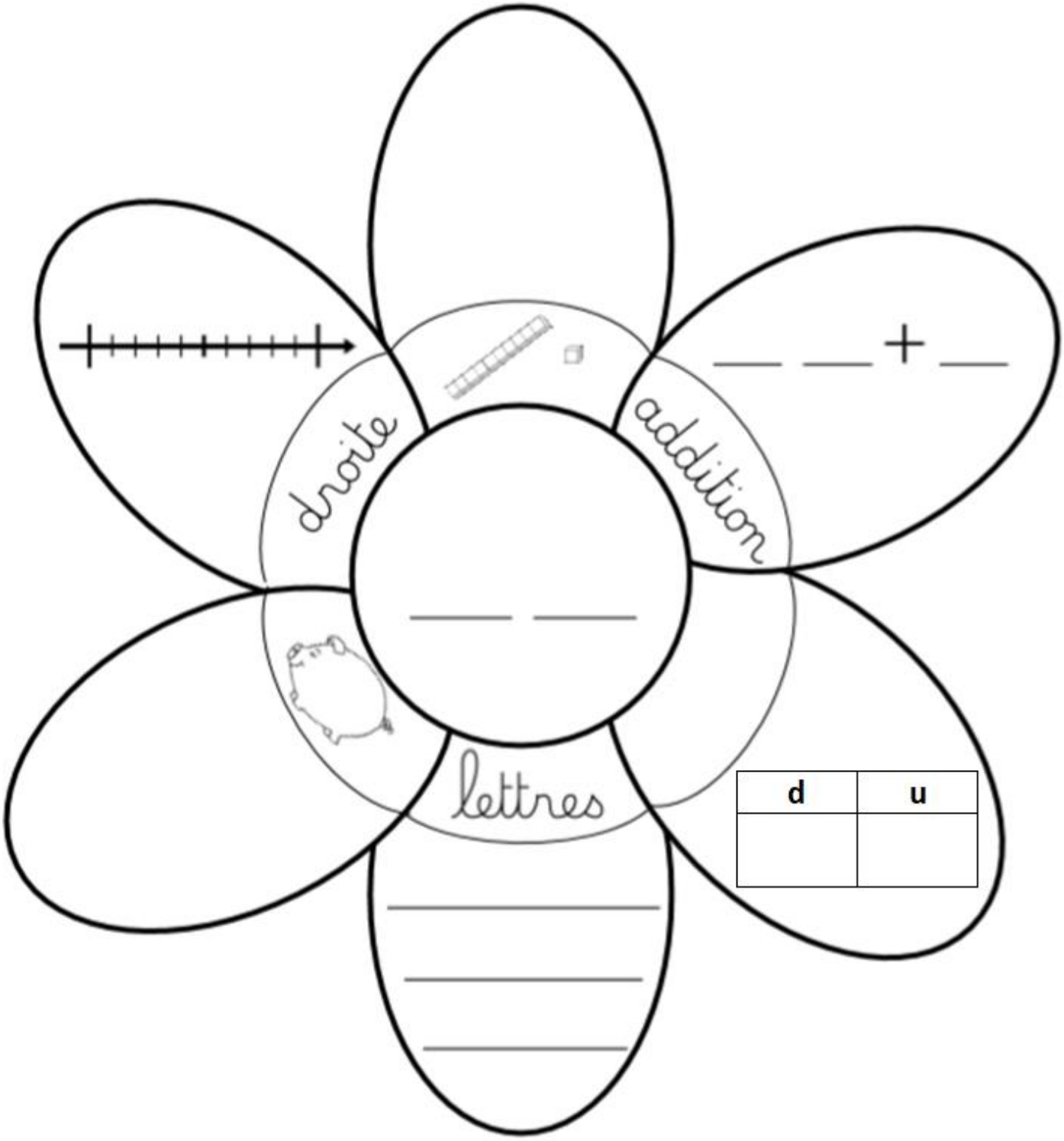

Exercice 5. Réalise une fleur du nombre 86.

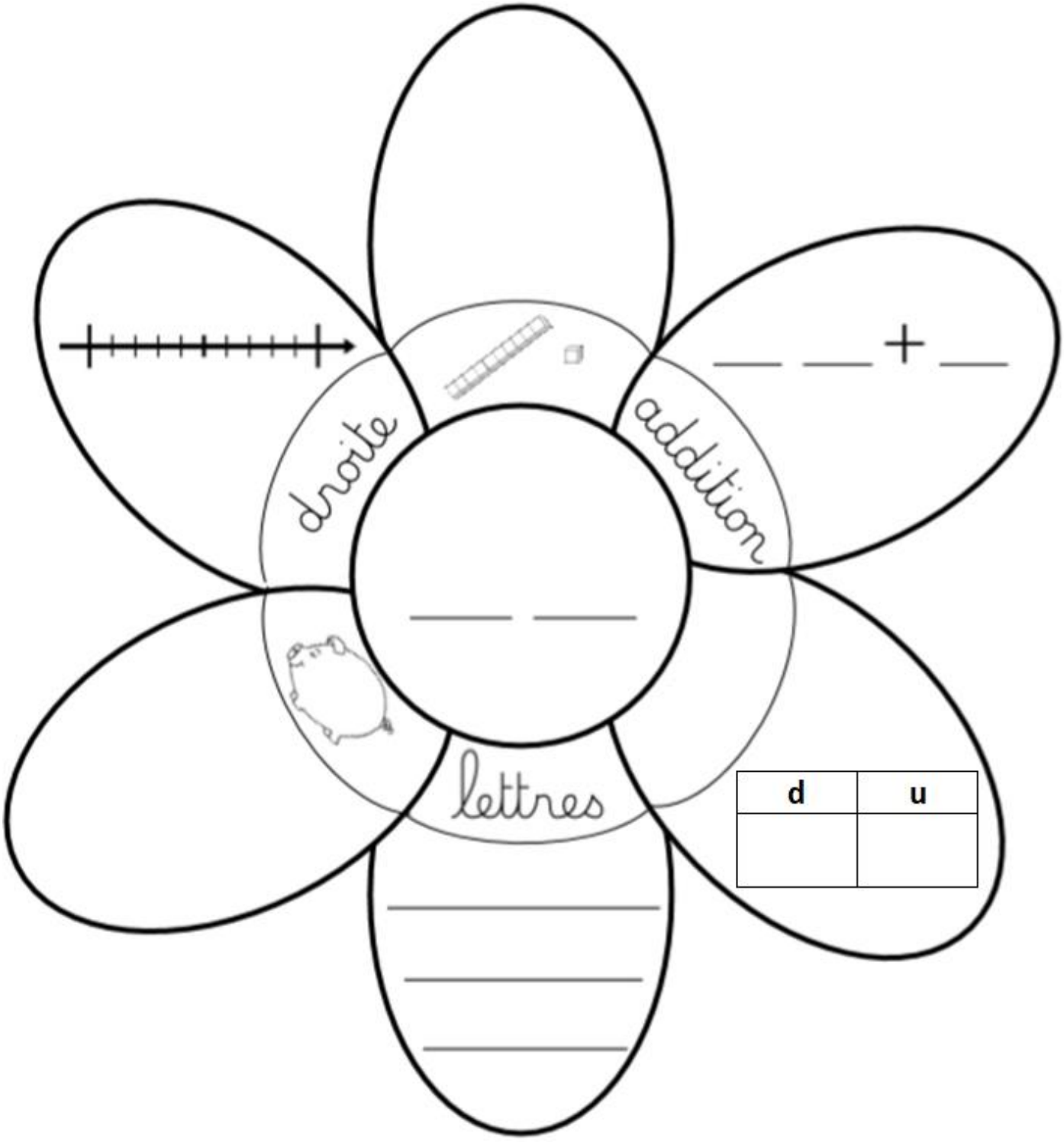

Exercice 6. Effectue ces additions.

6 1	5 4	8 7
+ 7 4	+ 3 0	+ 4 5

En ce jour de fête,

Ouvre-moi les bras

Pour que je m’accroche

Très fort à ton cou

Et que je te fasse

Mille gros bisous

Bonne fête Papa